WS 20/21 Name ……..……..

Matrikelnr……..…

Spektroskopie 2 (NMR)
WS 2020/2021 Klausur

19.01.2021

Frage 1: (11 Punkte)

Auf folgenden Seiten sind die NMR-Spektren einer Verbindung mit folgender Summenformel abgebildet: $C_{11}H_{16}O$.

Hinweis: Es ist Diethylether als Verunreinigung im Spektrum enthalten !!

1. Markieren Sie die sichtbaren Signale der Verunreinigung Diethylether im Protonenspektrum . (2 P)

2. Welche Fragmente finden Sie auf Grund der Spektren? (4 P)

3. Bestimmen Sie die Struktur (1 P)

4. Zeigen Sie im Cosy-Spektrum, welche Kopplungen Sie gesehen haben. Zeichnen Sie diese Kopplungen in Ihr Molekül ein. (Molekül neu zeichnen) (2 P)

5. Welche Kopplungen haben Sie aus dem HMBC benötigt? (2 P)
(Molekül neu zeichnen)

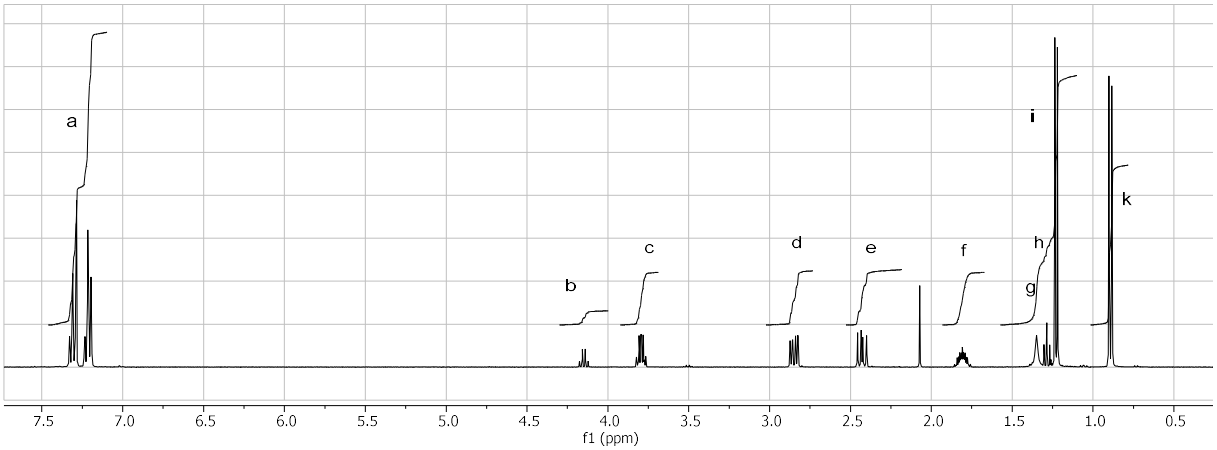
a
b
c
d
e
f
g
h
i
k
7.5 7.0 6.5 6.0 5.5 5.0 4.5 4.0 3.5 3.0 2.5 2.0 1.5 1.0 0.5
f1 (ppm)

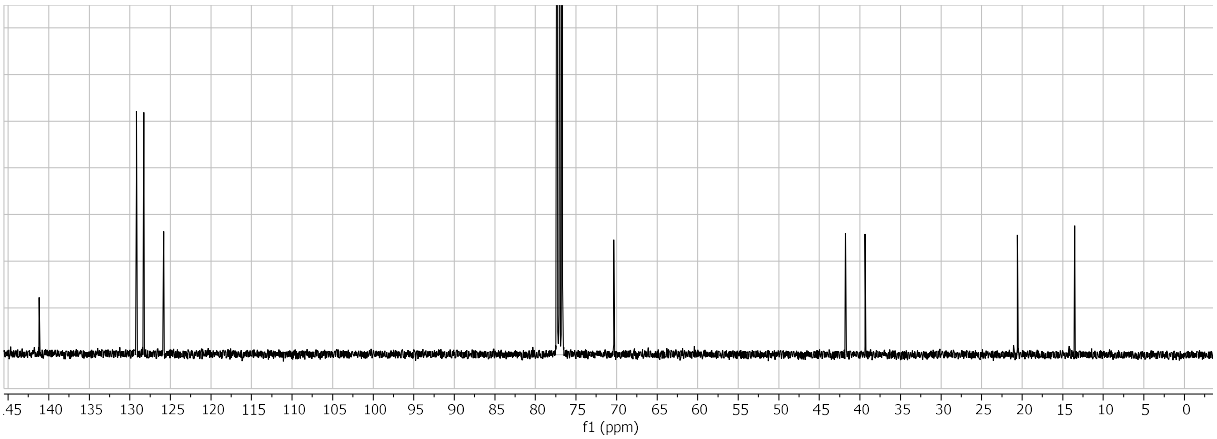
145 140 135 130 125 120 115 110 105 100 95 90 85 80 75 70 65 60 55 50 45 40 35 30 25 20 15 10 5 0
f1 (ppm)

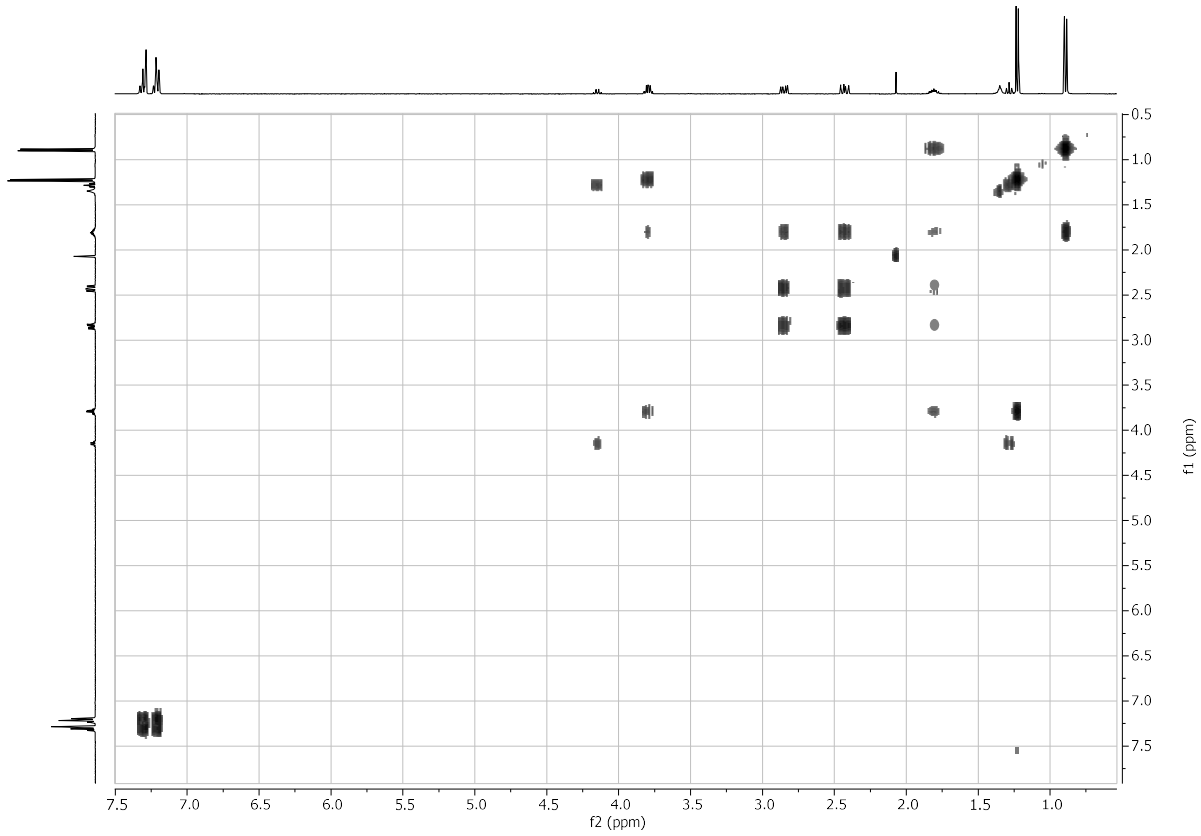
0.5 1.0 1.5 2.0 2.5 3.0 3.5 4.0 4.5 5.0 5.5 6.0 6.5 7.0 7.5
f1 (ppm)
7.5 7.0 6.5 6.0 5.5 5.0 4.5 4.0 3.5 3.0 2.5 2.0 1.5 1.0
f2 (ppm)

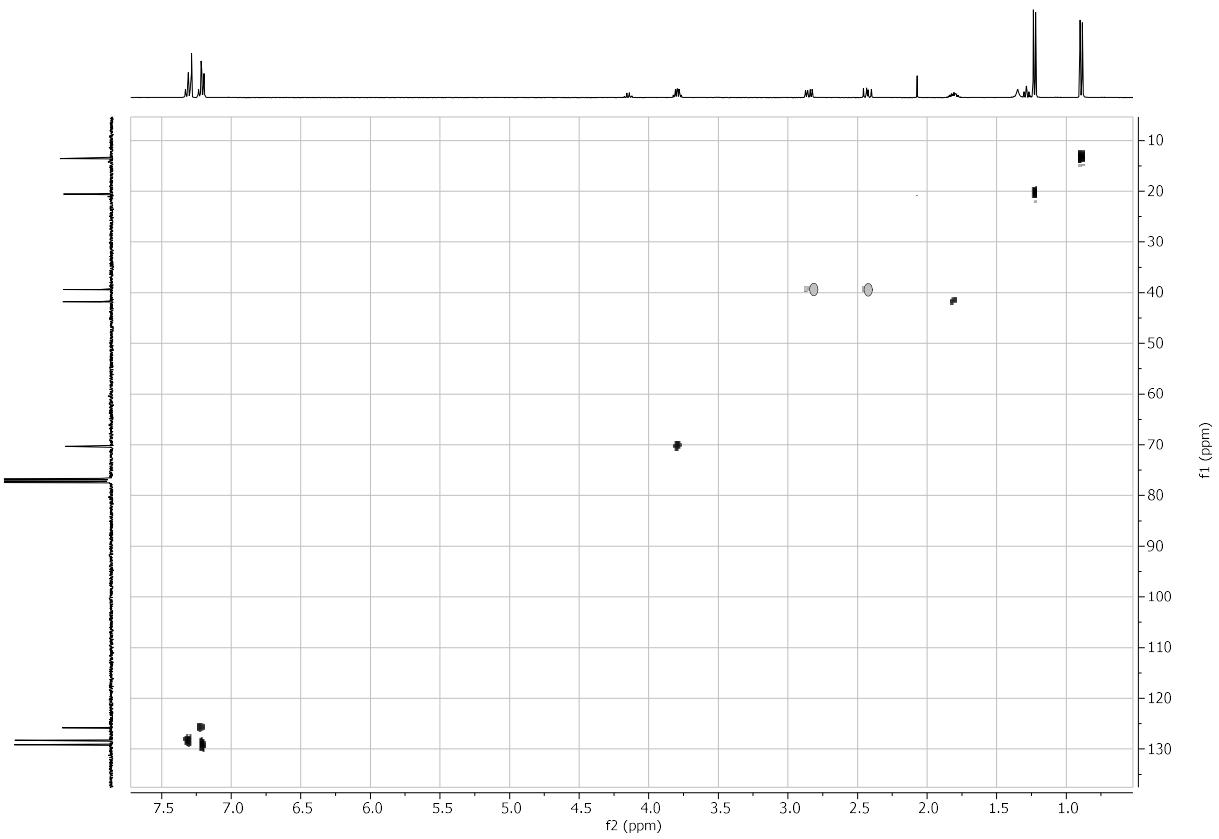
f2 (ppm)
f1 (ppm)

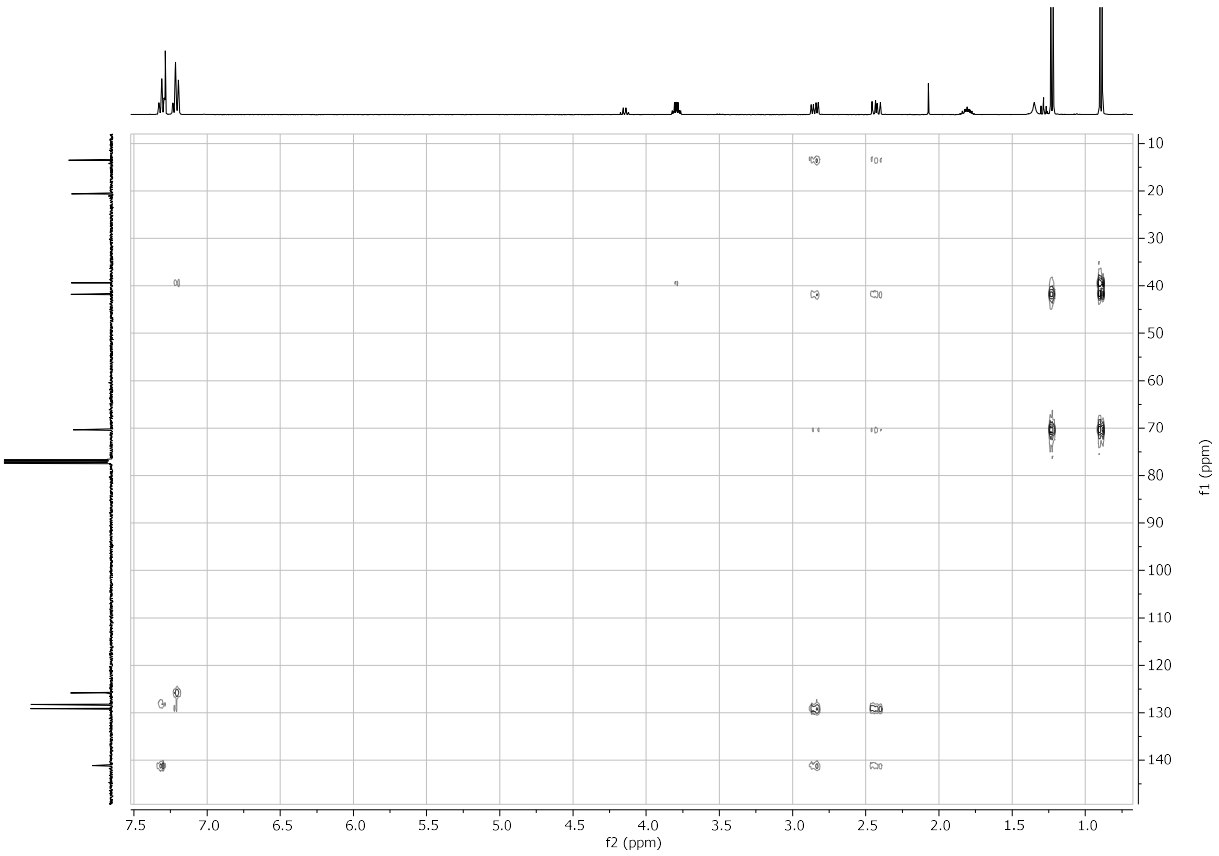
f2 (ppm)
f1 (ppm)

Frage 2: (9 Punkte)

Auf folgenden Seiten sind die NMR-Spektren einer Verbindung mit folgender Summenformel abgebildet: $C_{11}H_{11}BrO$

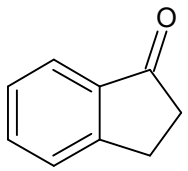

Grundstruktur .

1. Geben Sie eine sinnvolle Struktur an. (1 P)

2. Schreiben Sie kurz und stichpunktartig, wie Sie auf die Reste und die Position der Reste gekommen sind.
   (nur die notwendigen Schritte zur Bestimmung der Struktur !) (5 P)

3. Splittingschlüssel für die Protonen des Aromatens incl. allen Kopplungskonstanten. (3 P)

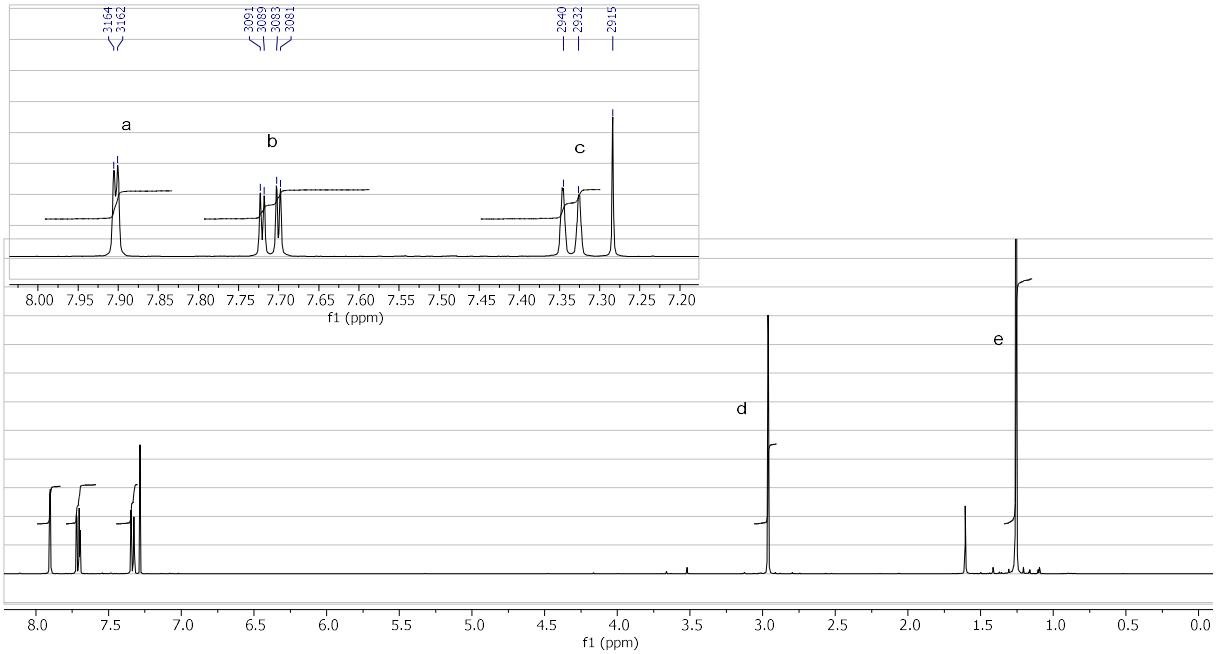
3164
3162
3091
3089
3083
3081
2940
2932
2915
a
b
c
d
e
f1 (ppm)

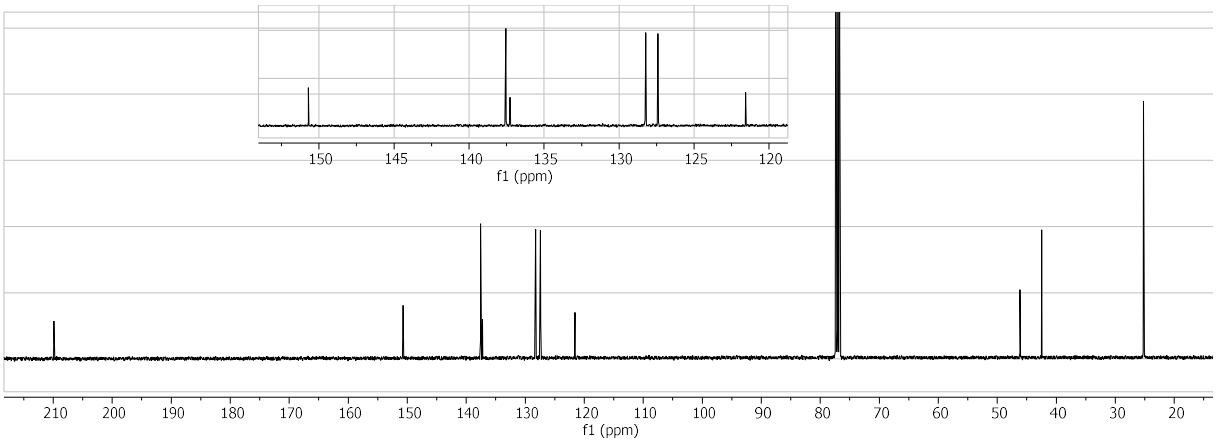
f1 (ppm)

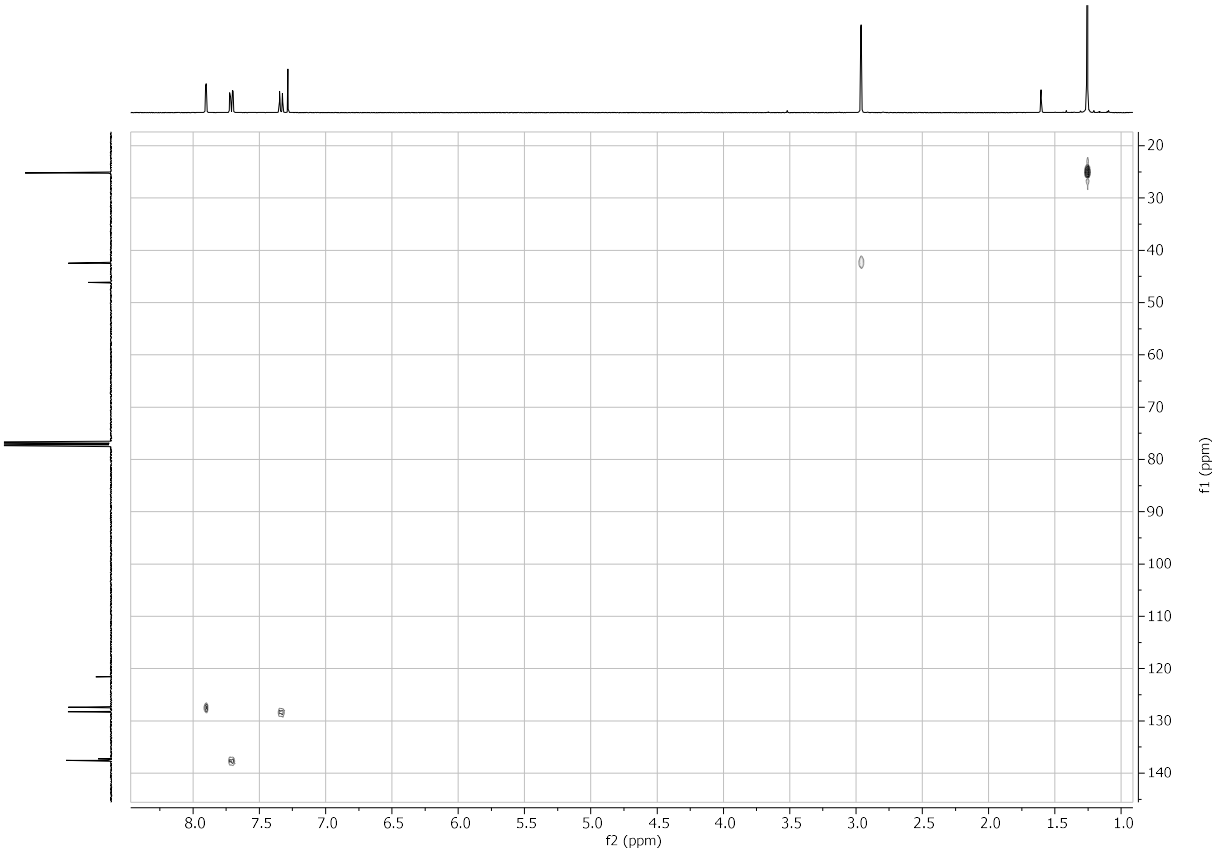
f2 (ppm)
f1 (ppm)

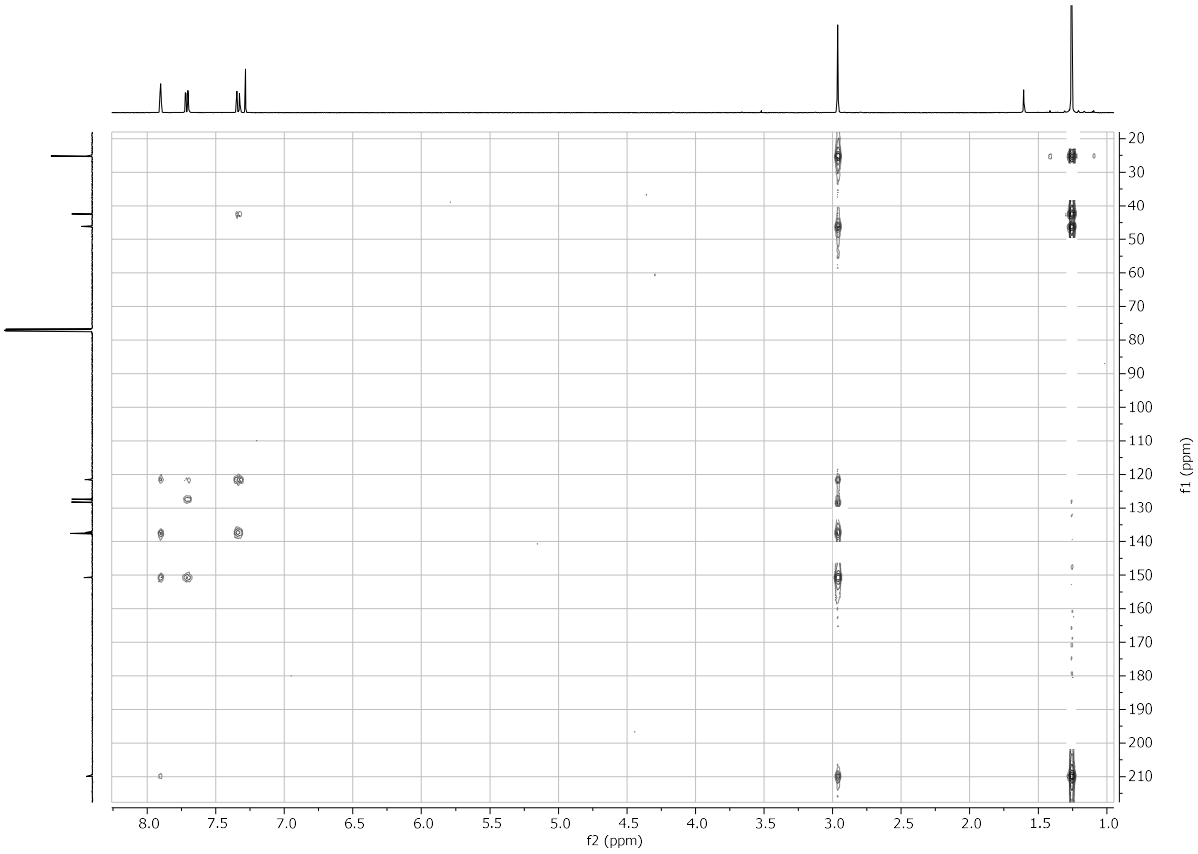
f2 (ppm)
f1 (ppm)

Frage 3: (13 Punkte)

Auf Seite 2 sind die NMR-Spektren einer Verbindung mit folgender Summenformel abgebildet: $C_6H_3IN_2$.

1. Welche Fragmente finden Sie auf Grund des ^{1}H- ,^{13}C-Spektren und DBÄ? (3 P)

2. Ordnen Sie die Signale so gut wie möglich zu.

3. Geben Sie eine sinnvolle Struktur an. (1 P)

4. Ordnen Sie alle Signale zu. (6 P)

5. Zeichnen Sie für <u>die quartären Cs</u> die sichtbaren Kopplungen in Ihr Molekül ein. Zeichnen Sie Ihr Molekül dafür neu. (3 P)
   Erstellen Sie dafür auch eine Tabelle:

	C-Atome	Proton	$^{n}J_{CH}$
z. B	1	b	$^{3}J_{1b}$

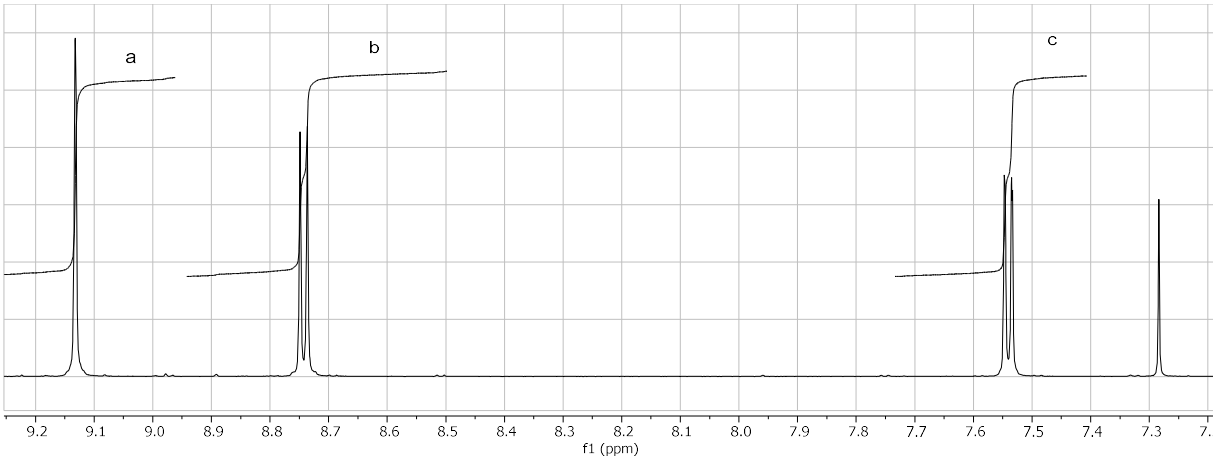
a
b
c
9.2 9.1 9.0 8.9 8.8 8.7 8.6 8.5 8.4 8.3 8.2 8.1 8.0 7.9 7.8 7.7 7.6 7.5 7.4 7.3 7.
f1 (ppm)

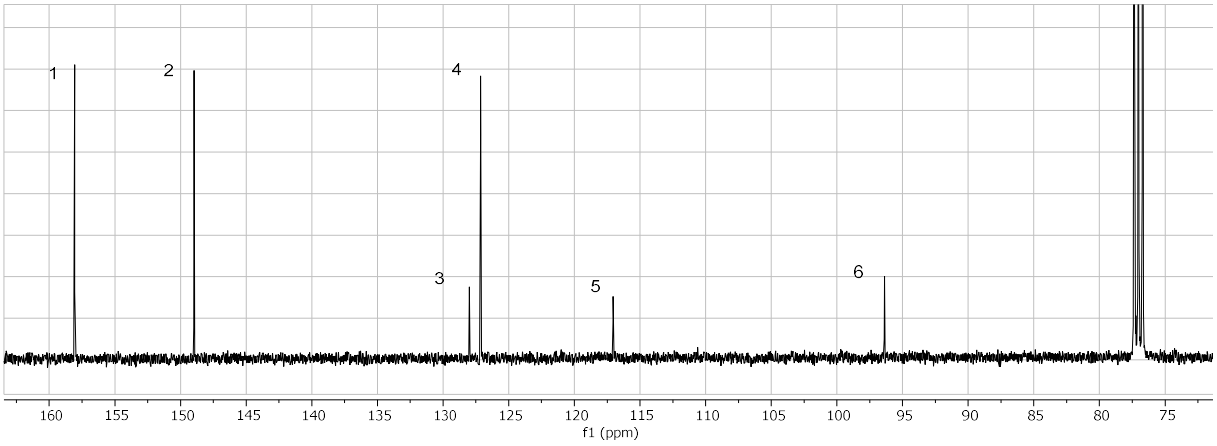
1
2
3
4
5
6
160 155 150 145 140 135 130 125 120 115 110 105 100 95 90 85 80 75
f1 (ppm)

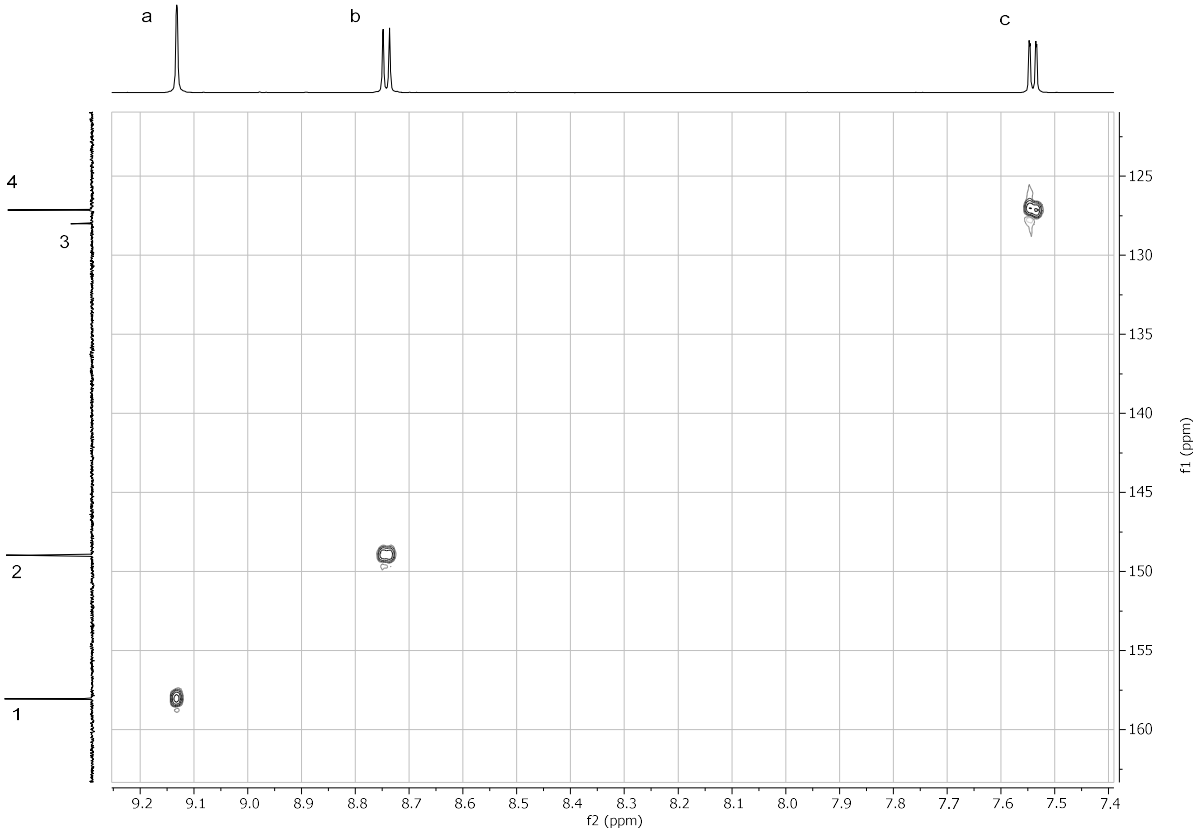
a
b
c
1
2
3
4
125 130 135 140 145 150 155 160
f1 (ppm)
9.2 9.1 9.0 8.9 8.8 8.7 8.6 8.5 8.4 8.3 8.2 8.1 8.0 7.9 7.8 7.7 7.6 7.5 7.4
f2 (ppm)

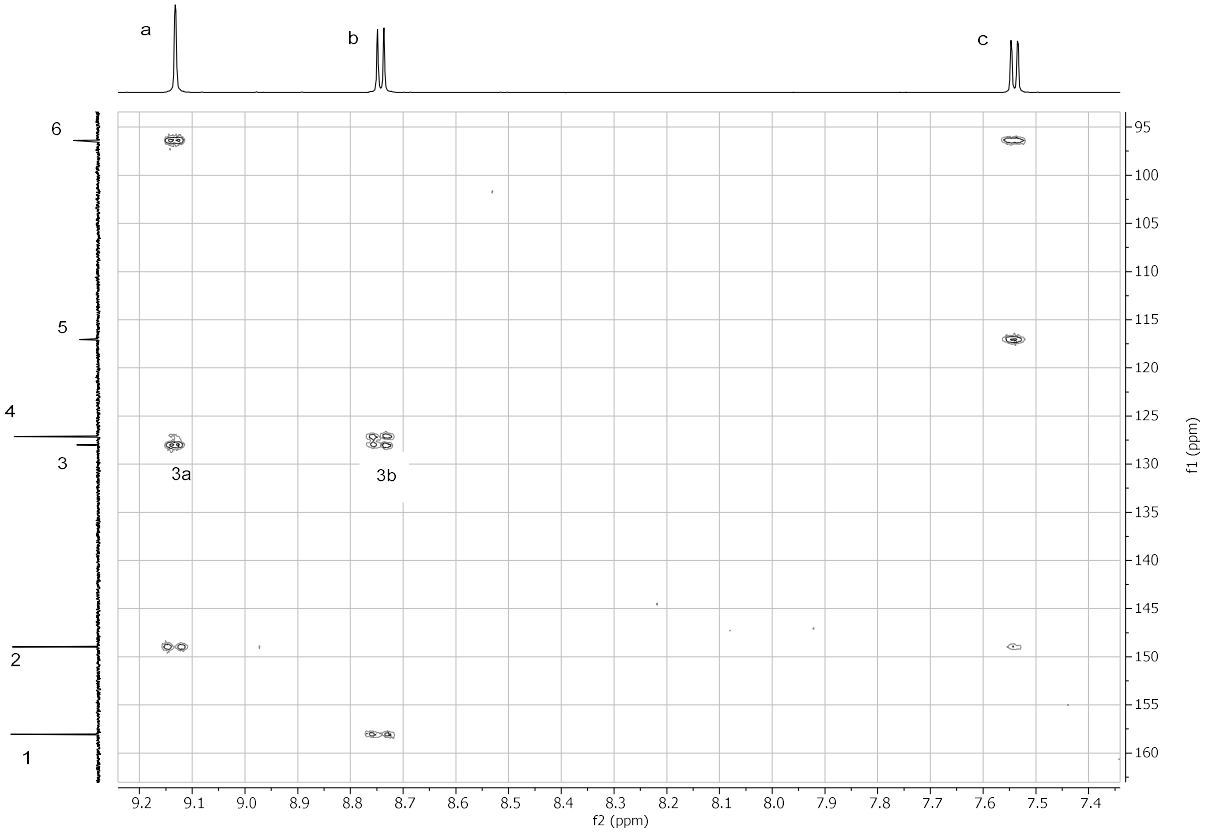
a
b
c
6
5
4
3
2
1
3a
3b
f2 (ppm)
f1 (ppm)

Frage 4: (6 Punkte)

Unten ist das 13C- NMR-Spektren einer Verbindung mit folgender Summenformel abgebildet: $C_2F_3O_2D$.

1. Geben Sie eine sinnvolle Struktur an. (2 P)

2. Erklären sie die Signale (2 P)

3. Bestimmen Sie die sichtbaren Kopplungen (2 P)

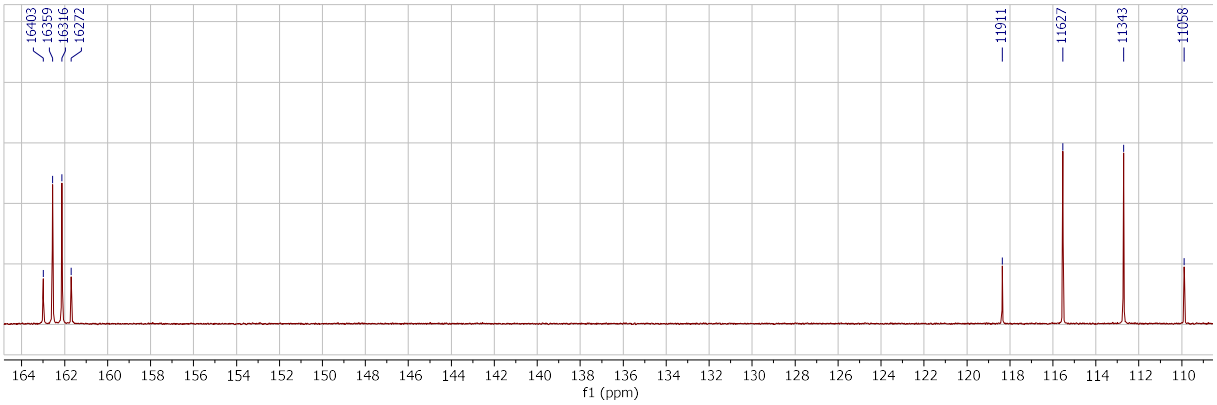

Frage 5: (13 Punkte)

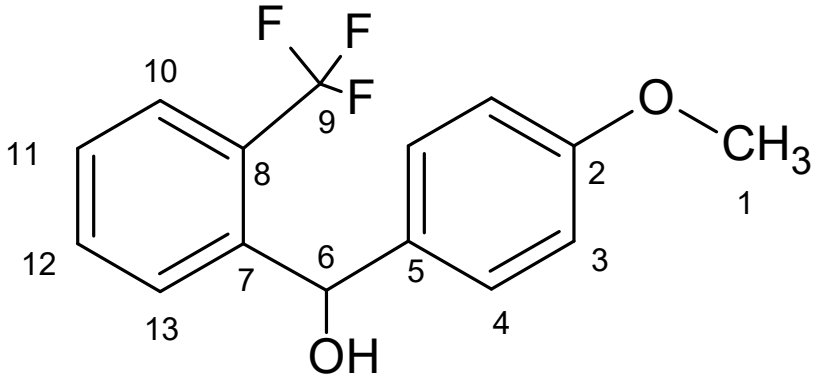

1. Ordnen Sie alle Signale zu. (13 P)

.

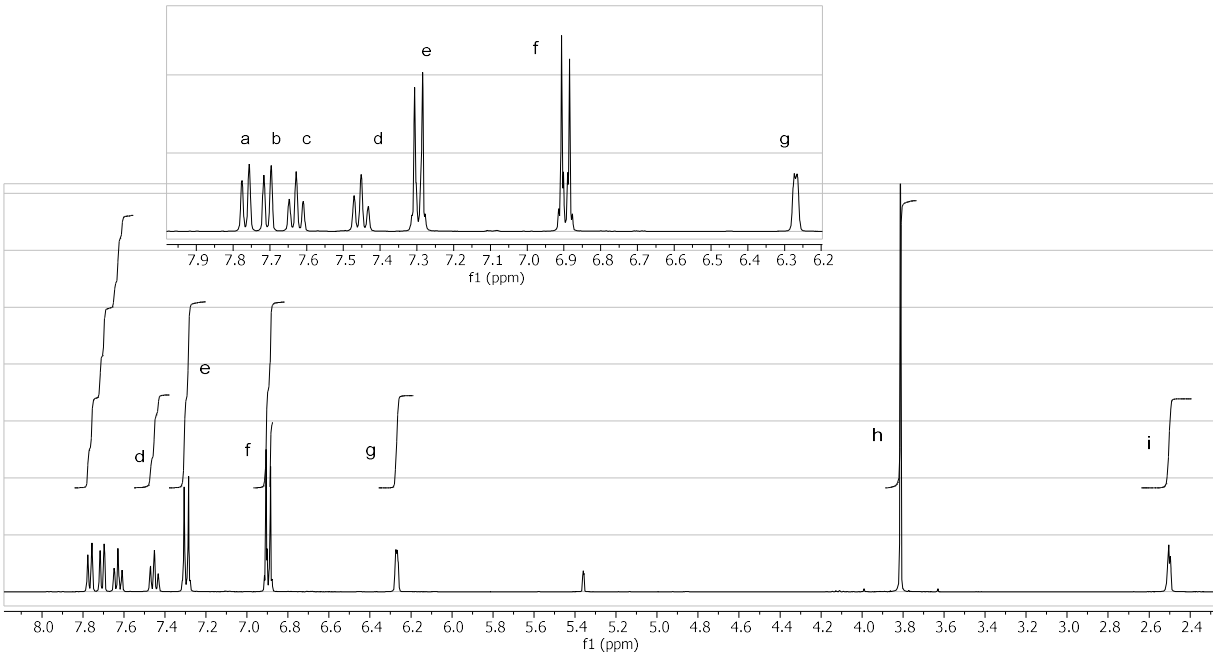
a
b
c
d
e
f
g
h
i
f1 (ppm)

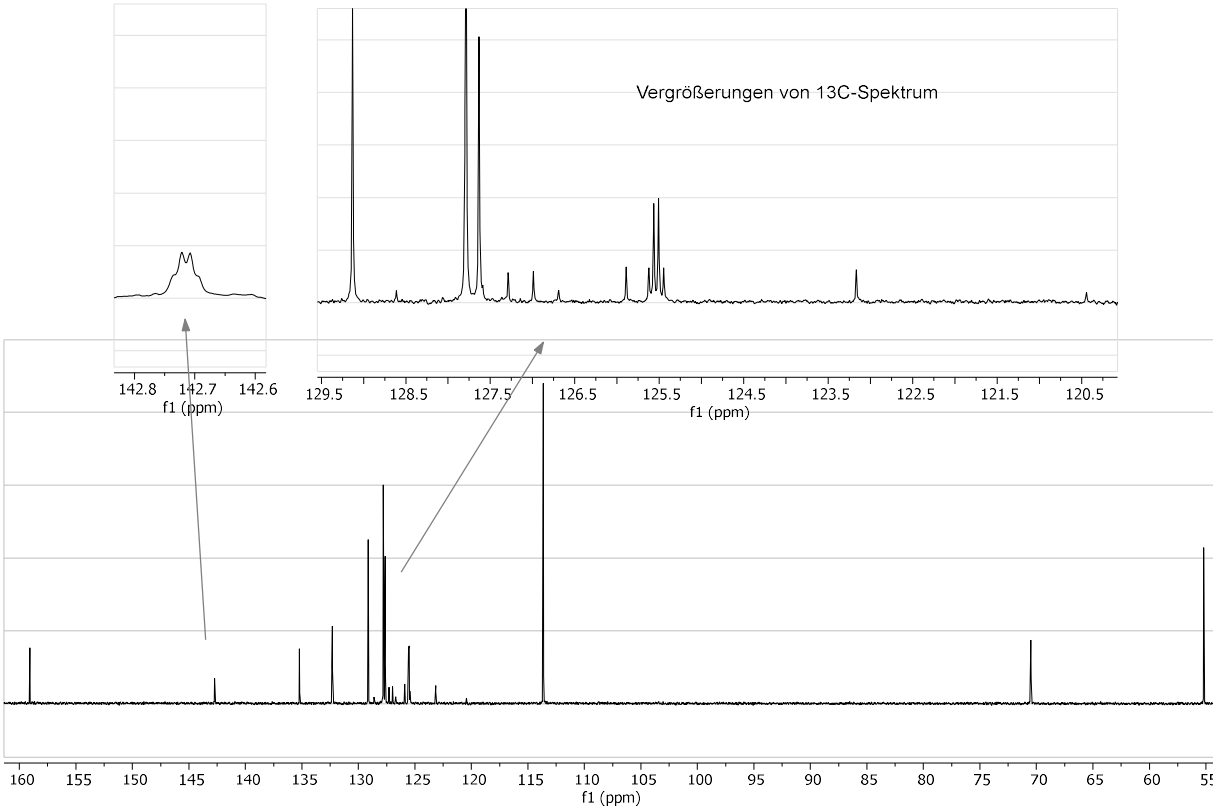
Vergrößerungen von 13C-Spektrum
f1 (ppm)

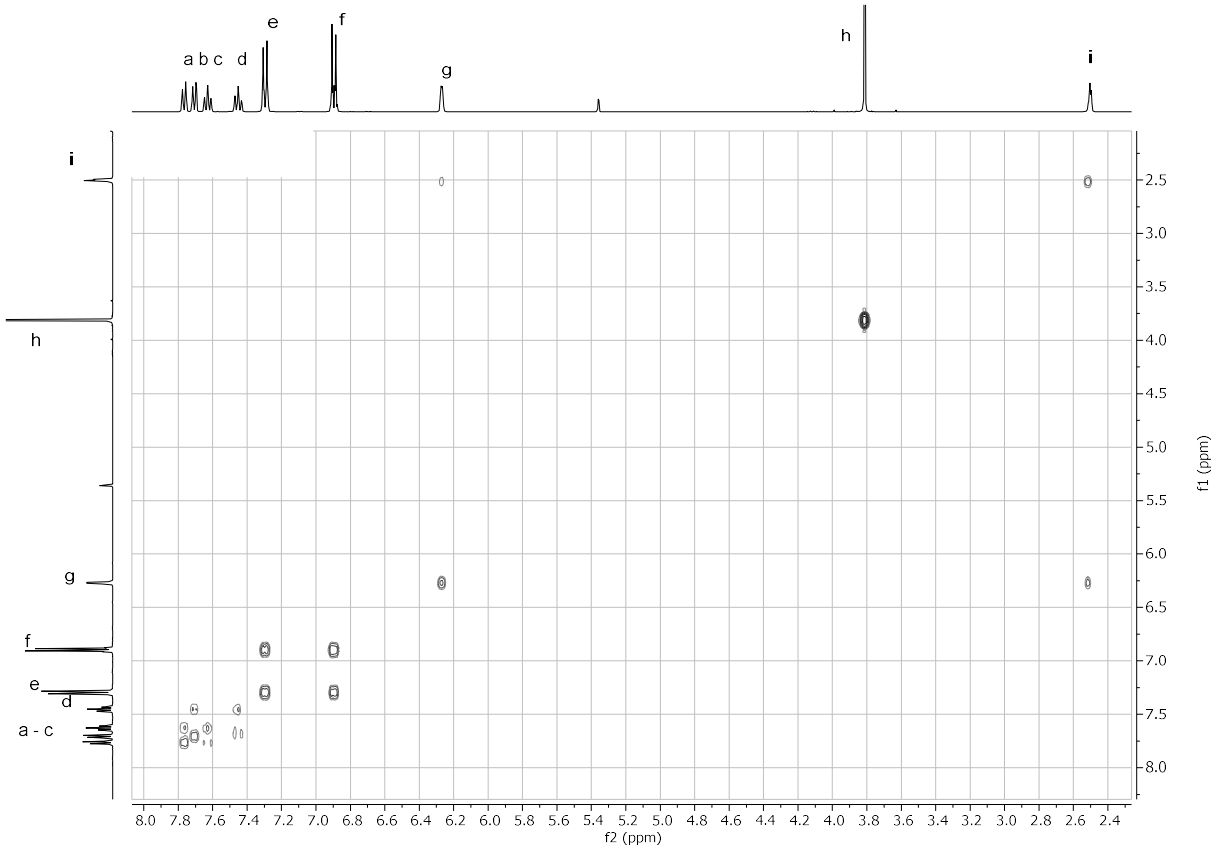
a b c d
e
f
g
h
i
a - c
f2 (ppm)
f1 (ppm)

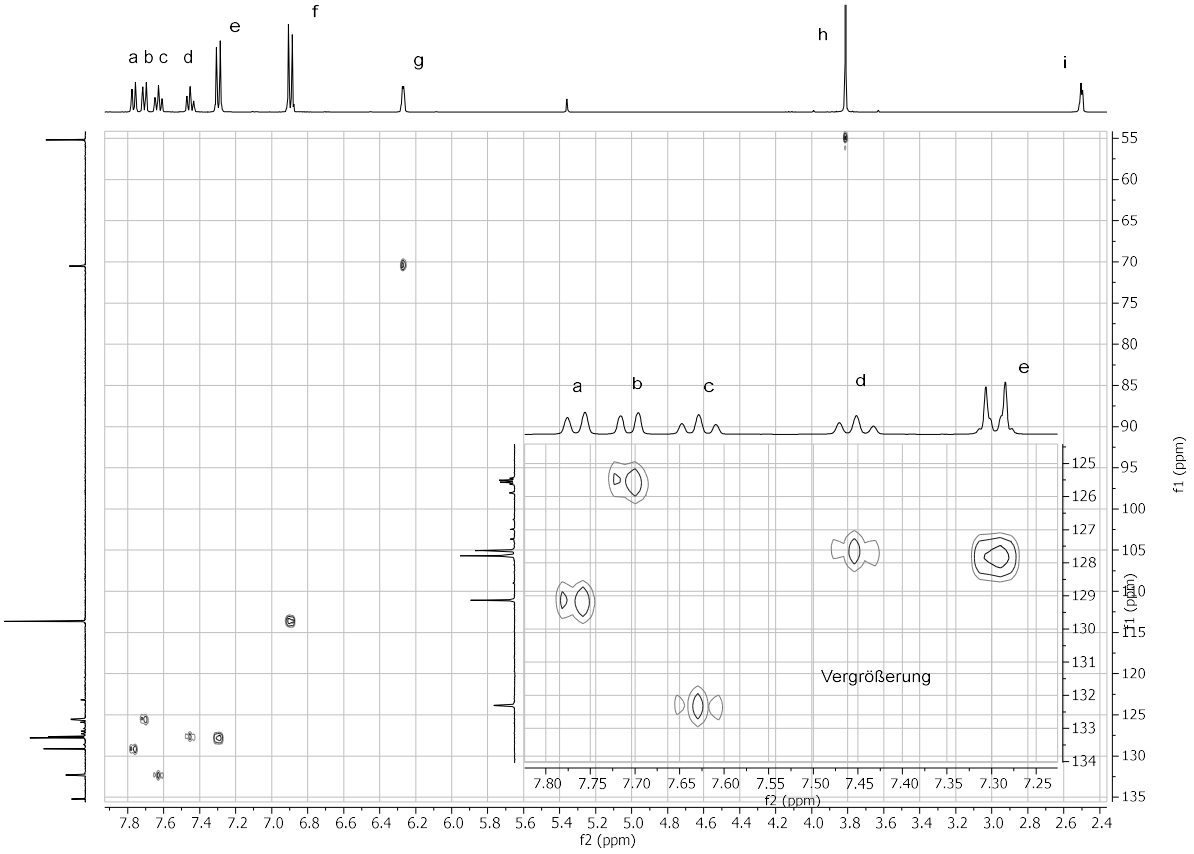
a b c d
e
f
g
h
i
Vergrößerung
f2 (ppm)
f1 (ppm)

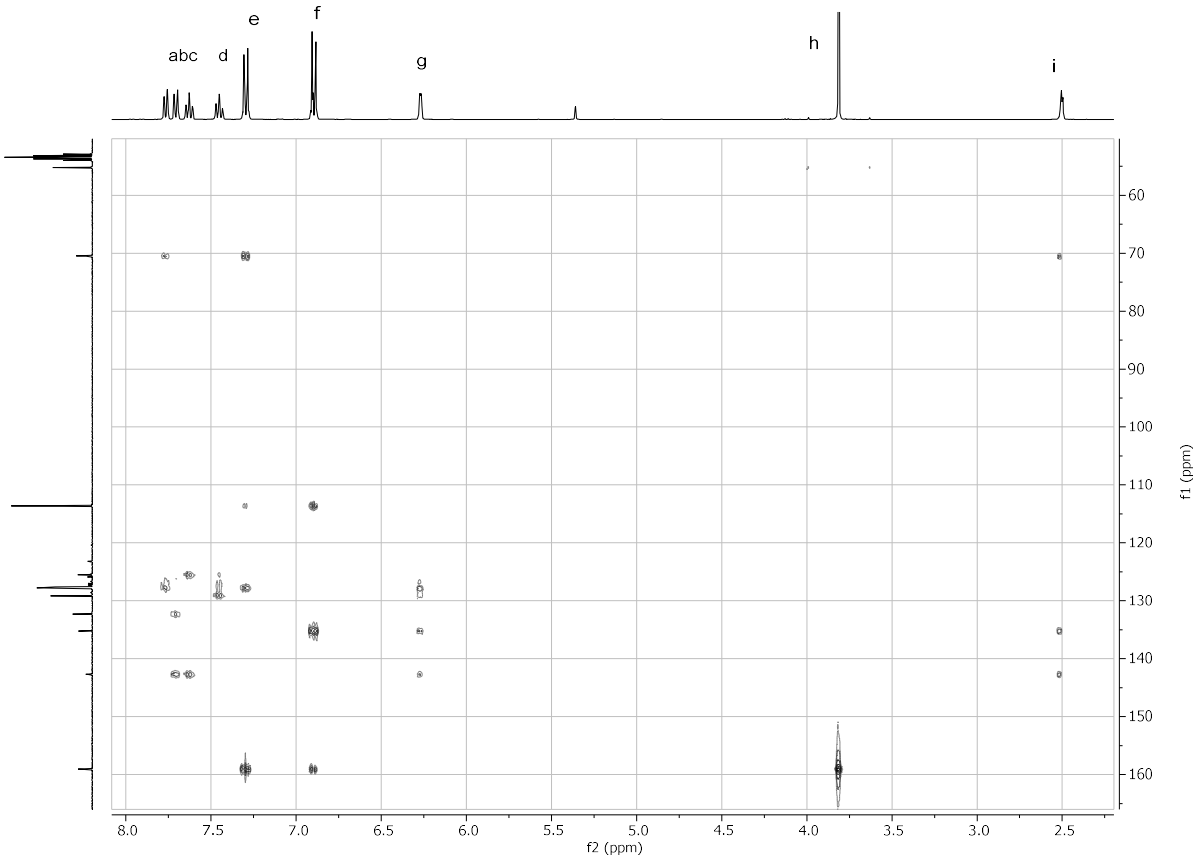
abc
d
e
f
g
h
i
f1 (ppm)
f2 (ppm)

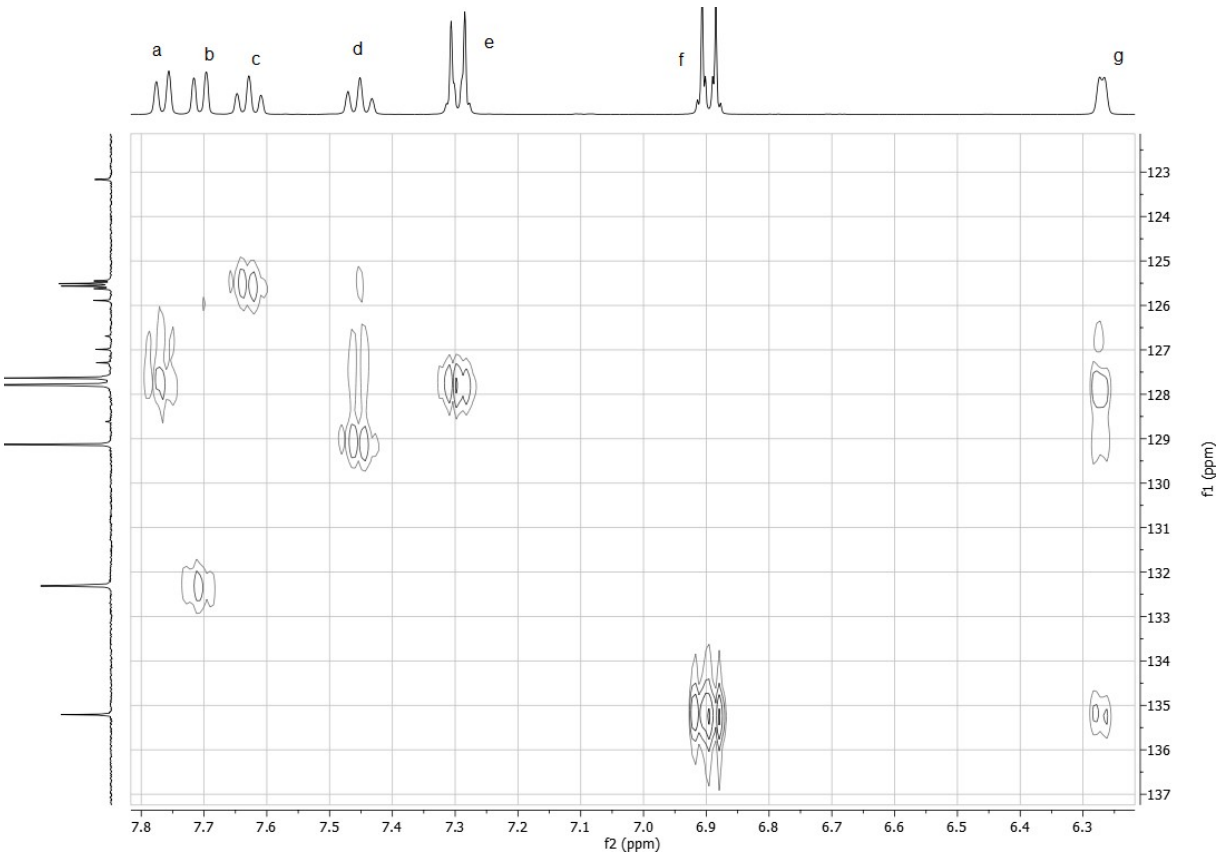
a
b
c
d
e
f
g
f1 (ppm)
f2 (ppm)

Frage 6: Theorie (18 Punkte)

1. In den NMR-Pulssequenzen verwenden wir verschiedene Symbole zur Kennzeichnung von Impulsen und Zeitspannen, die vom NMR-Spektrometer ausgeführt werden, um die Spins anzuregen und die NMR-Spektren aufzunehmen. Jedes Symbol und jeder Baustein hat seine eigene Bedeutung. Zeichnen Sie in der folgenden Liste das Symbol ein, das üblicherweise für die bezeichnete Aktion verwendet wird, und geben Sie ein Beispiel, wo und wofür diese Pulsfolge-Bausteine verwendet werden. (8 P)

    a. Entkopplung
    b. FID
    c. $90°_x$ Impuls
    d. 180° Impuls
    e. Kanal
    f. Indirekte Erfassungszeit
    g. Direkte Erfassungszeit
    h. Recycle-delay

2. Skizzieren Sie mit Hilfe der oben aufgeführten Symbole eine repräsentative 2D ^{1}H-^{13}C, heteronukleare, protonen-detektierte, ^{13}C-entkoppelte Pulssequenz. Geben Sie an, welche Segmente die Präparation, Evolution, Mischung und Detektion darstellen. Zeichnen Sie neben der Pulsfolge das schematische 2D-Spektrum von Ethanol, das mit dieser Pulsfolge gemessen wurde. (5 P)

3. Heteronukleare 2D-Experimente werden üblicherweise mit Entkopplung sowohl in der direkten als auch in der indirekten Dimension gemessen. Wie würde das 2D ^{1}H-^{13}C-Spektrum eines ^{1}H-^{13}C-Spinpaares aussehen,

    a. Wenn die ^{1}H-Entkopplung ausgeschaltet wäre
    b. Wenn die ^{13}C-Entkopplung ausgeschaltet wäre
    c. Wenn beide Auskopplungen ausgeschaltet wären
    d. Wenn beide Entkopplungen aktiv sind?

    Erläutern Sie bitte anhand dieser Spektren, welchen Vorteil die Verwendung der Entkopplung in Bezug auf die Auflösung und das Signal/Rauschen hat. (5 P)